9 总复习

表内乘法

一、复习乘法含义

你能说出生活中用5×4＝20来表示的事例吗？

5＋5＋5＋5＝20

5×4＝20

4×5＝20

乘数　乘数　积

一、复习乘法含义

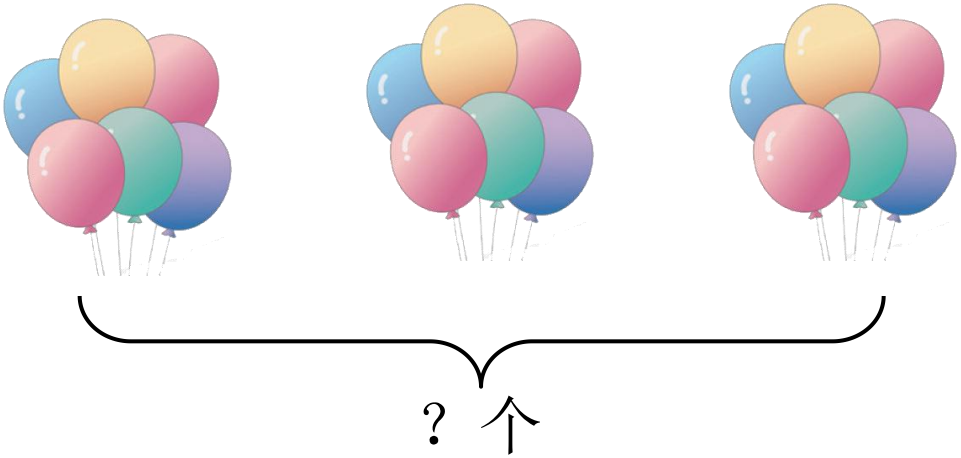

看图列两个乘法算式，说一说用的哪句乘法口诀求出积。

6 × 3 = 18

3 × 6 = 18

乘法口诀：三六十八

二、复习乘加、乘减



一共有多少个草莓？你是怎样计算的？

我是这样算的：
5×4＋3＝23

我是这样算的：
5×5－2＝23

三、复习解决问题

你 读题你知道了什么？



（1）有3排房子，每排5间，一共有多少间房子？

我是这样想的：把3个5加起来是多少？列式：5×3＝15（间）

我来画图验证一下：

□ □ □ □ □

□ □ □ □ □

□ □ □ □ □

一共15间，解答正确。

（2）有2排房子，一排5间，另一排3间，一共有多少间房子？

我是这样想的：要把3和5加起来。列式：5＋3＝8（间）

我来画图验证一下：

□ □ □ □ □

□ □ □

一共8间，解答正确。

四、巩固练习

把得数相同的小鱼分别涂上相同的颜色。

















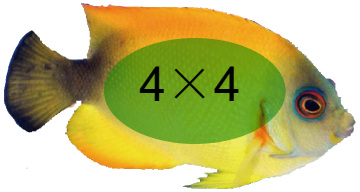









四、巩固练习



3×2＝6　　4×4＝16　　5×3＝15

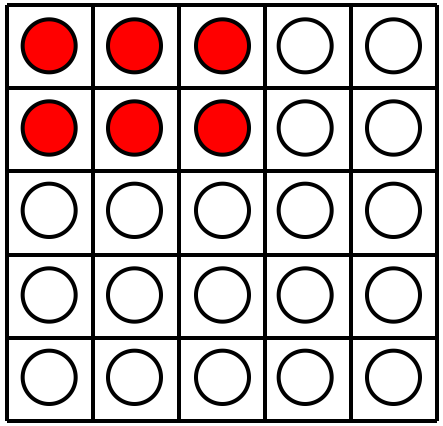





2013年新人教版二年级上册数学全册课件下载页面：
http://www.lspjy.com/thread-321039-1-1.html

绿色圃中小学教育网http://www.1spjy.com

四、巩固练习

$3\times2+3=\boxed{3}\times\boxed{3}$

$2\times4-2=\boxed{2}\times\boxed{3}$

$5\times5-5=\boxed{5}\times\boxed{4}$

$4\times3-4=\boxed{4}\times\boxed{2}$

四、巩固练习

仔细观察，在空格里填上相应的积。

×	1	2	3	4	5	6	7	8	9
1	1								
2		4							
3			9						
4				16					
5					25				
6						36			
7							49		
8								64	
9									81

（1）任意指一个积，说出所用的乘法口诀。

（2）观察每行或者每列数，你能发现什么规律？

（3）下面的表格是上表中的一部分，请把它们填完整。

20	24
25	30

48	56
56	63

四、巩固练习

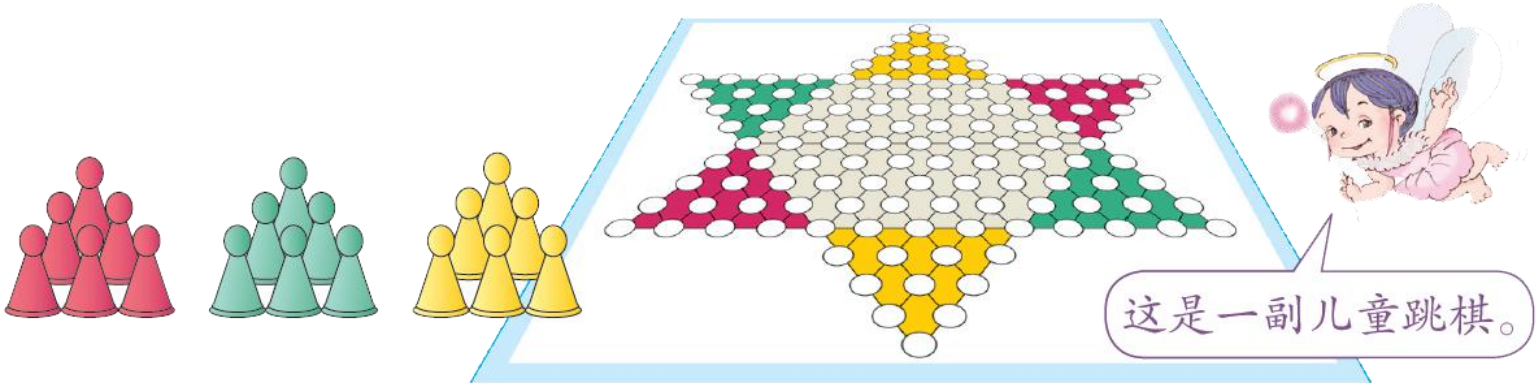

一共有多少枚棋子？

6×3＝18（枚）

口答：一共有18枚棋子。

五、课堂作业

作业：第103页练习二十五，第5题。

第104页练习二十五，第8题。