# 第 2 单元　100以内的加法和减法（二）

## 第 3 课时　进 位 加

# 一、探究新知

**3** 二（1）班和二（3）班一共有多少名学生？




## 理解题意

二（1）班有35人，二（3）班有37人，求两班的总人数用加法计算，列式为35+37。

## 解法探究

方法一：口算

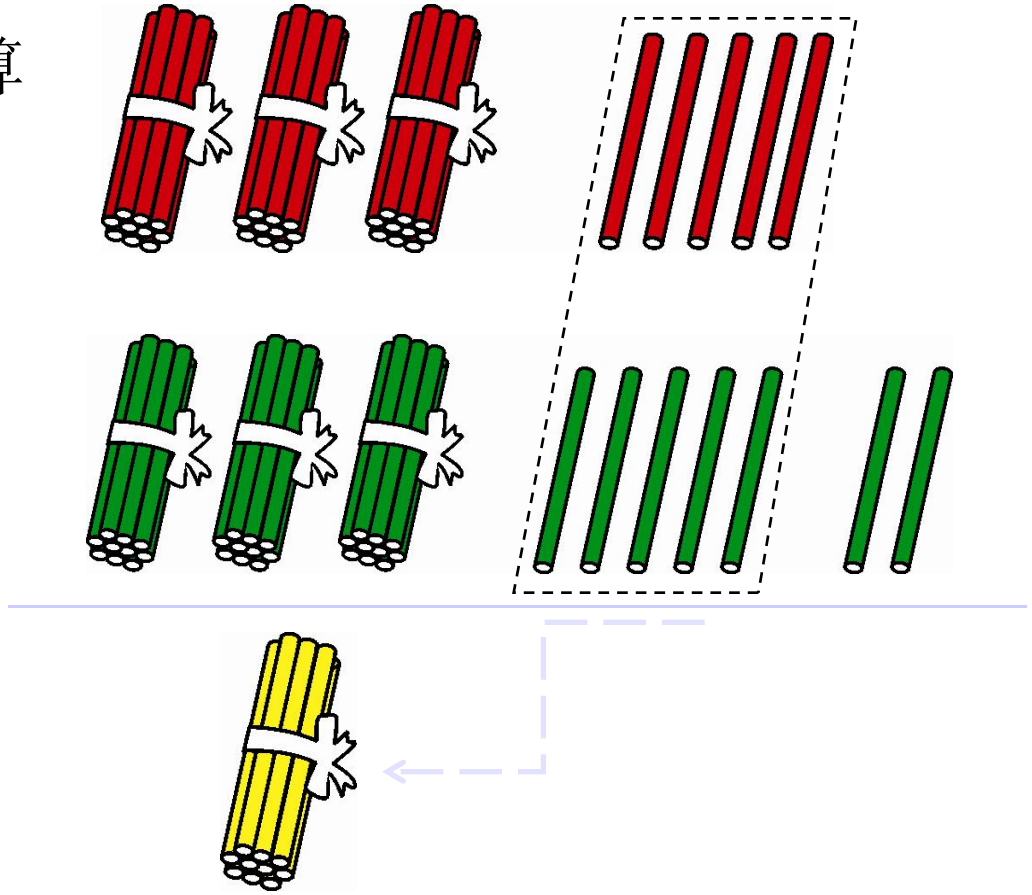

70 + 2 = 72

方法二：竖式计算

**35＋37＝ 72（人）**

| | 十 | 个 |
|---|---|---|
| | 3 | 5 |
| ＋ | 3 1 | 7 |
| | 7 | 2 |

**个位相加满十，向十位进1。**

- 规范解答

35+37=72

## 二、巩固练习

56+37=93

$$\begin{array}{r} 5\ 6 \\ +\ 3\ 7 \\ \hline (9\ 3) \end{array}$$

46+24=70

$$\begin{array}{r} 4\ 6 \\ +\ 2\ 4 \\ \hline (7\ 0) \end{array}$$

29+5=34

$$\begin{array}{r} 2\ 9 \\ +\ \ \ 5 \\ \hline (3\ 4) \end{array}$$

## 三、课堂小结

两位数加两位数（进位加）的计算方法：①相同数位对齐；②从个位加起；③个位相加满10向十位进1。

## 四、课后练习

一、用竖式计算。

65+18 =83　　26+35=61　　27+37=64

$$\begin{array}{r} 65 \\ +\ 18 \\ \hline 83 \end{array}$$

$$\begin{array}{r} 26 \\ +\ 35 \\ \hline 61 \end{array}$$

$$\begin{array}{r} 27 \\ +\ 37 \\ \hline 64 \end{array}$$

# 二、数学门诊。

病例1：

$$\begin{array}{r} 32 \\ +\ 48 \\ \hline 80 \end{array}$$

病例2：

$$\begin{array}{r} 24 \\ +\ 7 \\ \hline 31 \end{array}$$

三、

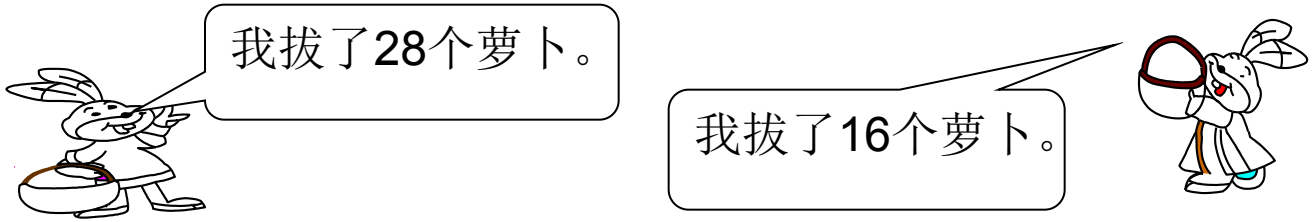


两只小兔一共拔了多少个萝卜？

28+16=44（个）

答：两只小兔一共拔了44个萝卜。