3 角的初步认识

认识锐角和钝角、解决问题

一、复习引入，揭示新知

（一）复习引入



直角

一、复习引入，揭示新知

（二）揭示新知

我认识锐角。



我发现每一个三角尺上，
除了有一个直角外，剩下
的这两个角都是锐角。

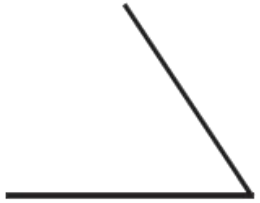

锐角
比直角小

一、复习引入，揭示新知

（二）揭示新知

比直角大的角是什么角呢？

比直角大的角是钝角，看红领巾上的这个角就是钝角。

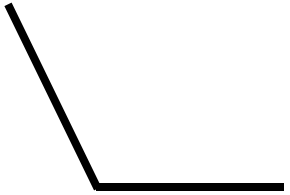

钝角
比直角大

二、深入探究，巩固新知

这个角比直角大，
这是一个钝角。

我来摆一个角，你来
说说这是什么角。



两人合作一起玩一玩这个游戏。

二、深入探究，巩固新知

1. 连一连。

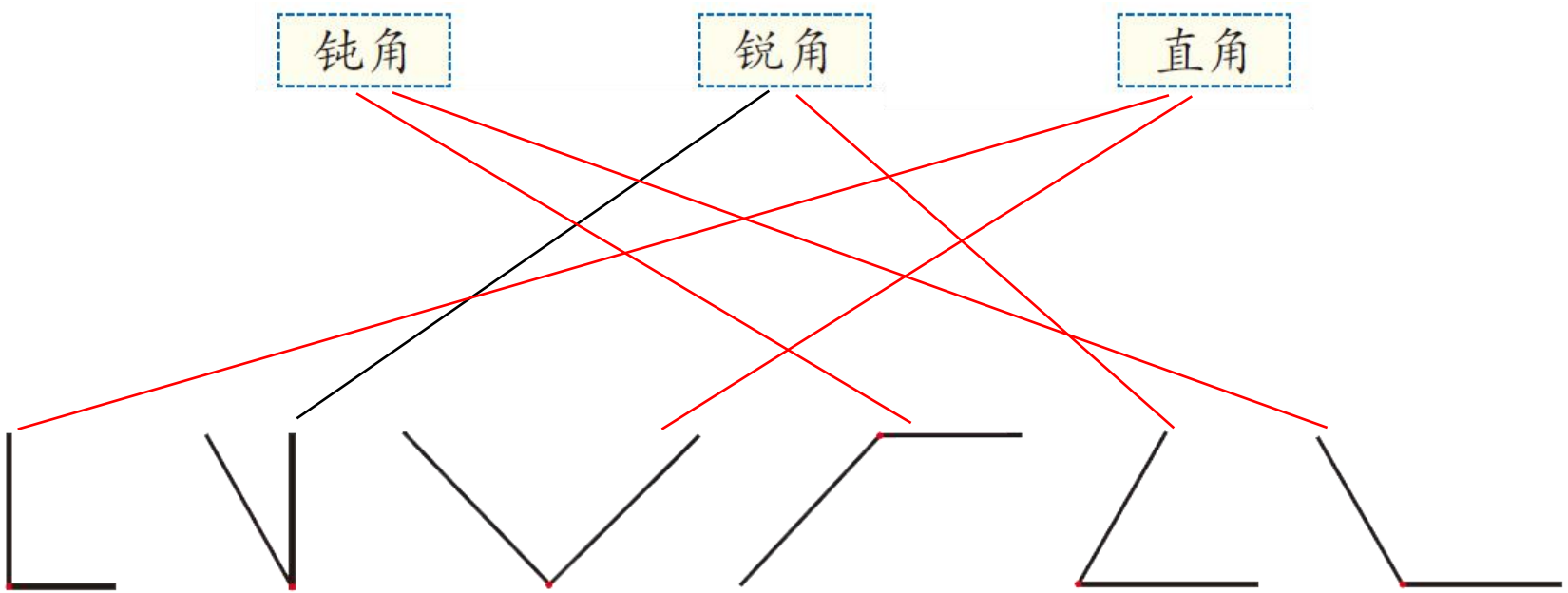

二、深入探究，巩固新知

2. 找一找。

找出下面三角形中的直角、锐角和钝角。

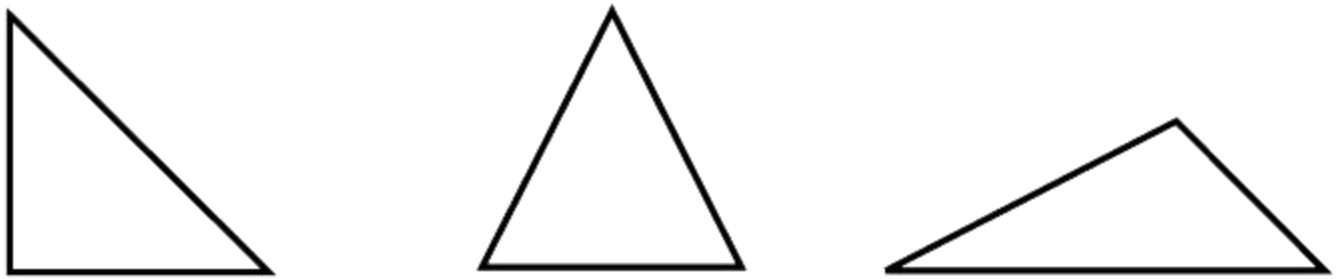

三、解决问题

你能用一副三角尺，
拼出一个钝角吗？

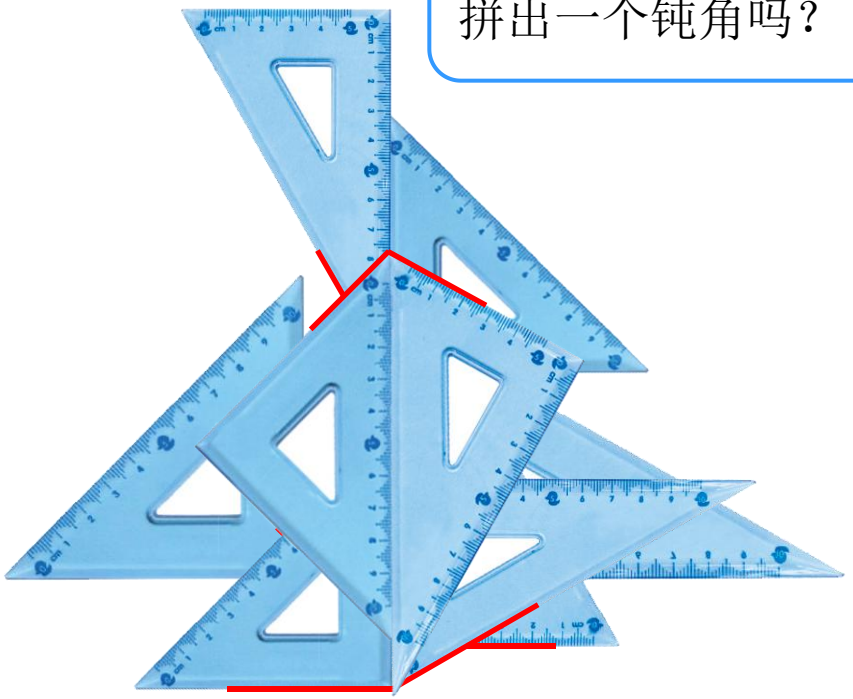

下面的这两个锐角
拼出来的不是钝角，
是锐角。

这两个三角尺都有一个
直角和两个锐角，我们
试着拼拼看。

三、解决问题

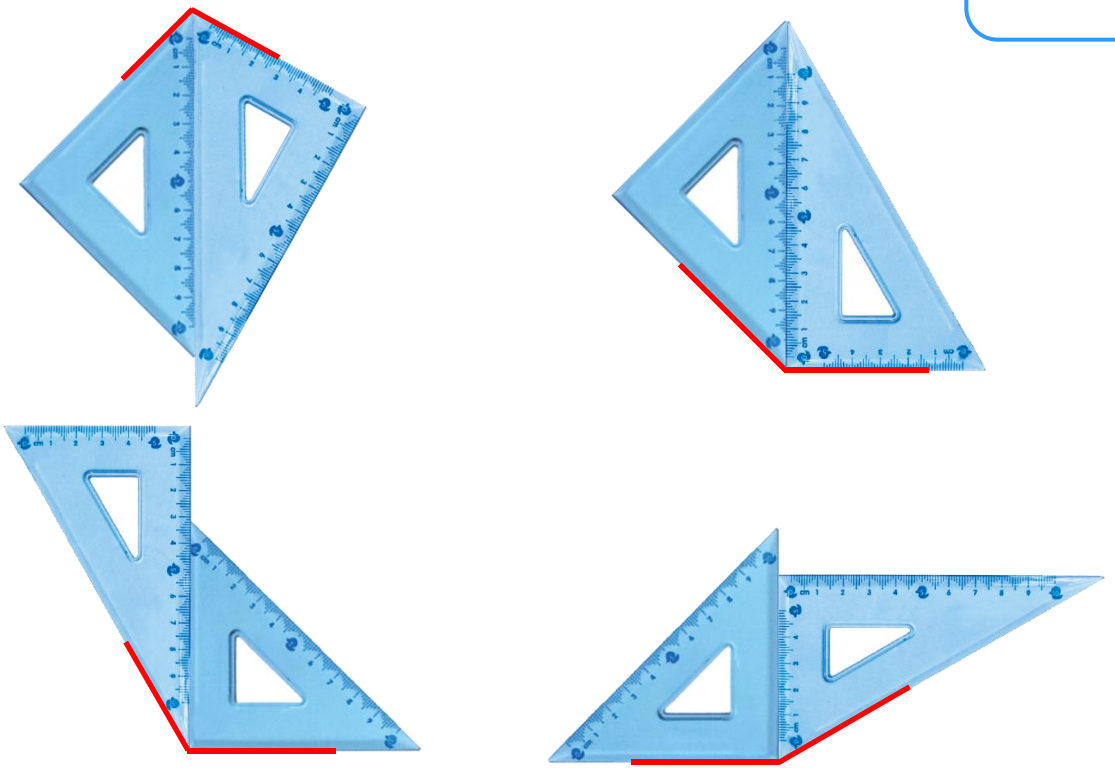

做一做

从两副三角尺中选出两个，拼出锐角、直角和钝角。

四、课堂作业

作业：第44页练习八，第11题。

第45页练习八，第12题。