2

100以内的加法和减法（二）

不进位加

博物馆
二（1）班
35 人
二（2）班
32 人
二（3）班
37 人
二（4）班
34 人

一、复习导入

你能提出什么数学问题？
怎样列式？

35＋2＝

37＋2＝

35＋32＝

35＋37＝

二（1）班学生和本班的
带队老师一共多少人？

二、探究新知

也可以写成竖式，
用笔算。

二（1）班学生和本班的带队老师一共多少人？

35＋2＝37（人）

	一	○个
	3	5
＋		2
	3	7

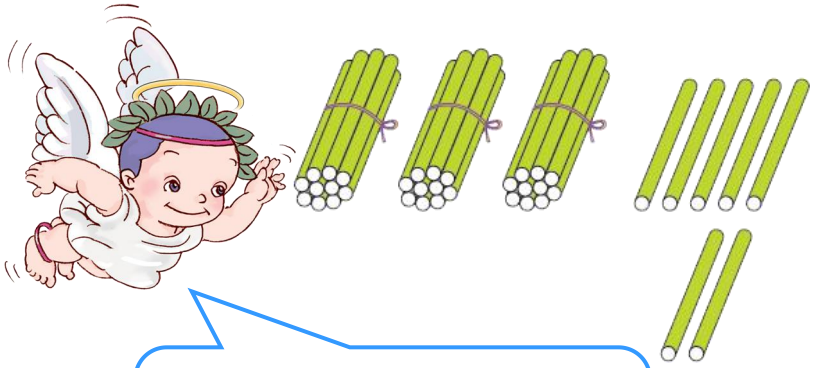

先算5＋2＝7，
再算30＋7＝37。

二（1）班
35人

二、探究新知

写竖式时，是从哪位加起的？

二（1）班和二（2）班一共有多少名学生？



35＋32＝67（人）

一〇个

$$\begin{array}{r} 3\ \ 5 \\ +3\ \ 2 \\ \hline 6\ \ 7 \end{array}$$

相同数位要对齐。

从个位加起。

二（1）班
35人

二（2）班
32人

三、知识应用

1.

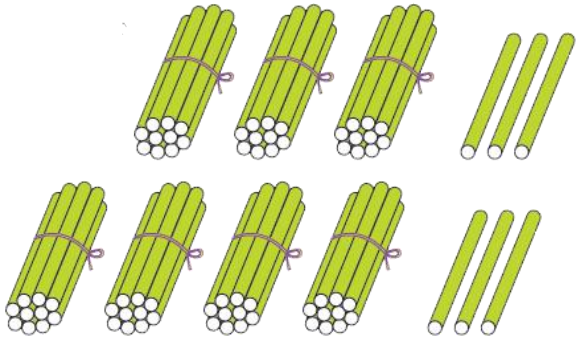

（ 3 3）

＋ （ 4 3）

（ 7 6）

三、知识应用



2.

$$\begin{array}{r} 21 \\ +\ \ 3 \\ \hline 24 \end{array} \qquad \begin{array}{r} 4 \\ +\ (33) \\ \hline 37 \end{array}$$

三、知识应用

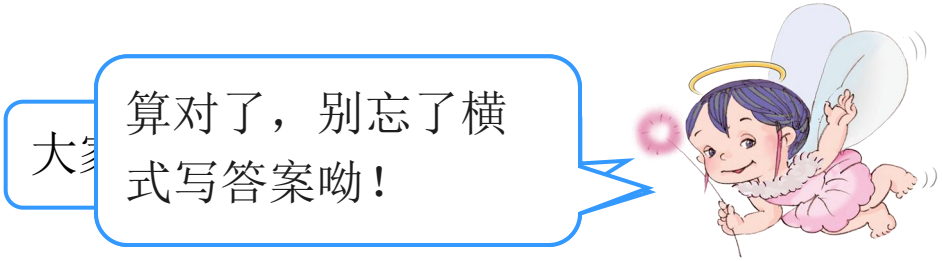

3.

$5+34=39$　　$36+21=57$

$$\begin{array}{r} 5 \\ +\,3\,4 \\ \hline 3\,9 \end{array} \qquad \begin{array}{r} 3\,6 \\ +\,2\,1 \\ \hline 5\,7 \end{array}$$

三、知识应用

猜一猜蝴蝶后面藏着几。

$$\begin{array}{r} 71 \\ +\ 2\,\square \\ \hline \square\,6 \end{array}$$

$$\begin{array}{r} 23 \\ +\ 23 \\ \hline \square\,6 \end{array}$$

$$\begin{array}{r} 5 \\ +\ 34 \\ \hline \square\,9 \end{array}$$

四、课堂作业

作业：第12页“做一做”第1题、第2题。

第13页“做一做”第1题、第2题。